LICEO ELVIRA SÀNCHEZ DE GARCÈS
MATEMÁTICAS 3º BÀSICO 2021
PROFESORA VANESSA VERA MAURO
GUÍA N° 4

Guía N° 4 de Matemáticas

Nombre _____ PTJE. IDEAL 70 PTS / PTJE. REAL _____

Objetivo Demostrar que comprenden la relación entre la adición y la sustracción usando la "familia de operaciones" en cálculos aritméticos y en resolución de problemas.

1. Usando las siguientes tarjetas, forme todas las adiciones y sustracciones posibles y escríbelas en los recuadros. (6 pts./_____)

a)

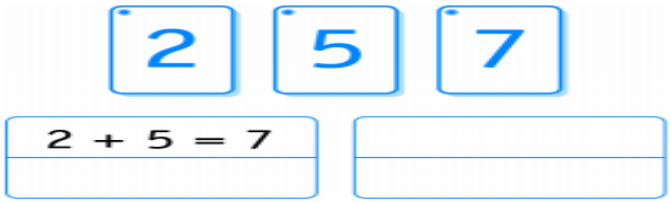

b)

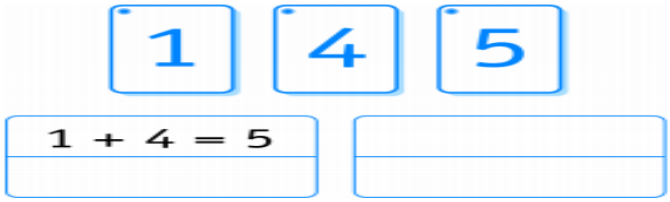

2. Complete las siguientes "familias de operaciones" (17 pts./_____)

2 + ☐ = 10	8 + 2 = ☐
8 + ☐ = 10	☐ - 8 = 2
10 - ☐ = 2	☐ - 2 = 8
2 + 8 = ☐	☐ + 2 = 10
10 - ☐ = 8	☐ + 8 = 10

LICEO ELVIRA SÀNCHEZ DE GARCÈS
MATEMÁTICAS 3º BÀSICO 2021
PROFESORA VANESSA VERA MAURO
GUÍA N° 4

Nombre y apellidos: .....

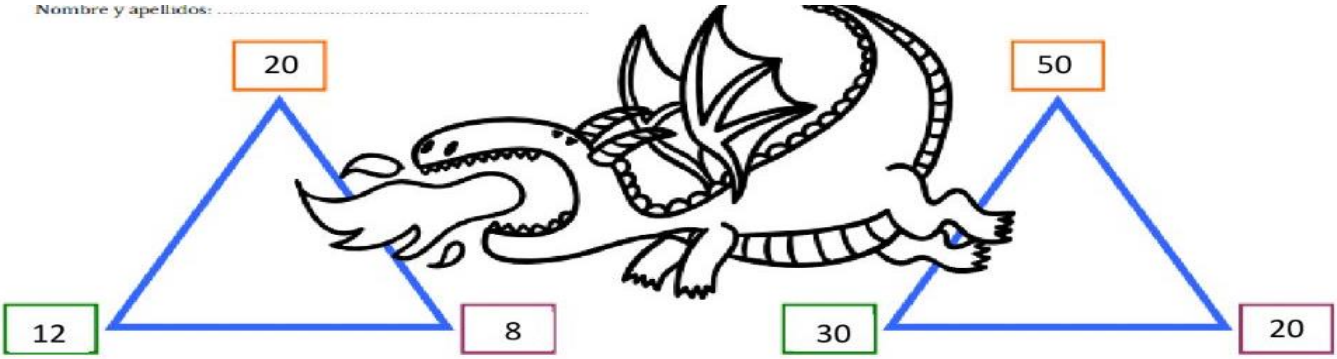

12	+	8	=	20

Activar Windo
Ve a Configuración

3.- Escribe los números en la tabla posicional y compáralos. Luego, completa (16 pts./___)

a. 144 y 414.

C	D	U	C	D	U

El número **mayor** es ____.

c. 587 y 578.

C	D	U	C	D	U

El número **menor** es ____.

b. 618 y 619.

C	D	U	C	D	U

El número **mayor** es ____.

d. 308 y 380.

C	D	U	C	D	U

El número **menor** es ____.

LICEO ELVIRA SÀNCHEZ DE GARCÈS
MATEMÁTICAS 3º BÀSICO 2021
PROFESORA VANESSA VERA MAURO
GUÍA N° 4

4.-Complete las siguientes “familias de operaciones” (15 pts./_____)

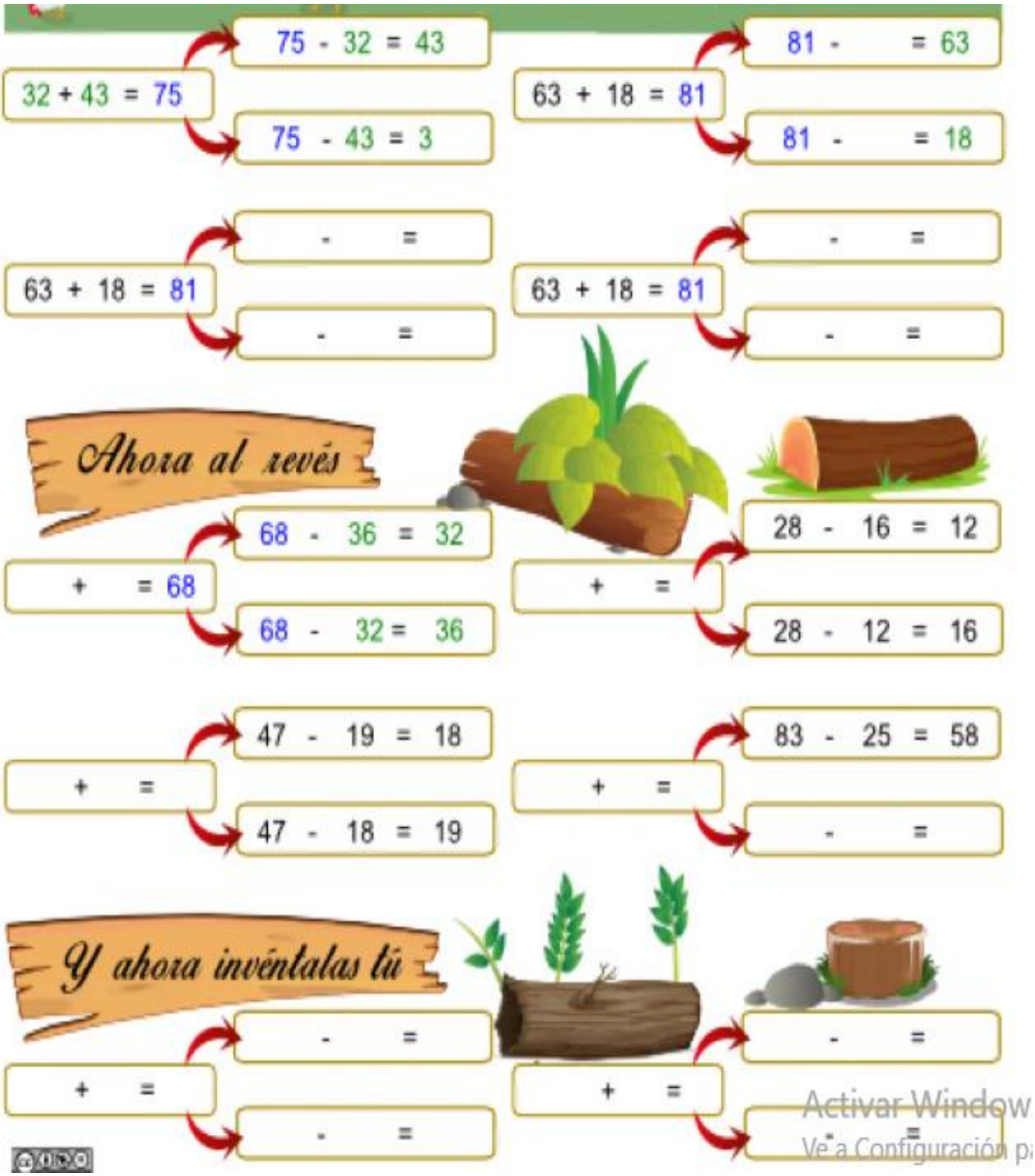

Activar Window
Ve a Configuración p

LICEO ELVIRA SÀNCHEZ DE GARCÈS
MATEMÁTICAS 3º BÀSICO 2021
PROFESORA VANESSA VERA MAURO
GUÍA N° 4

5.- Resuelve las operaciones, recorta y pega las piezas según el resultado.(16 pts./_____)
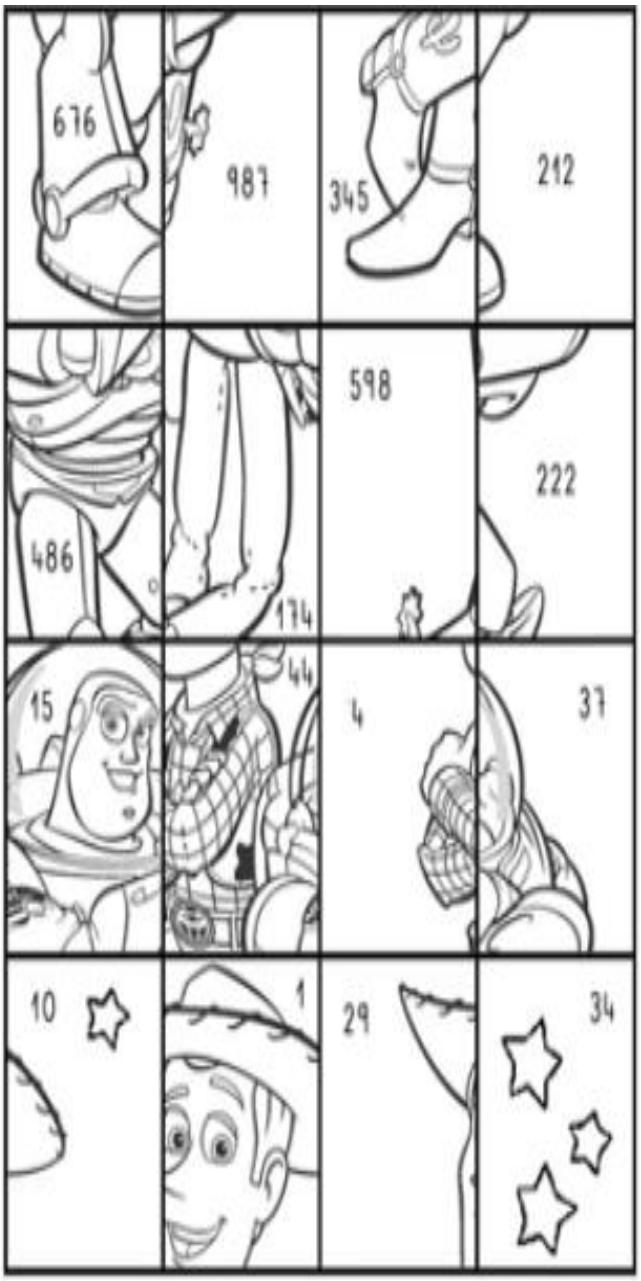
15 + 14 = ____	15 − 14 = ____	22 − 12 = ____	22 + 12 = ____
24 − 20 = ____	24 + 20 = ____	26 − 11 = ____	26 + 11 = ____
386 + 212 = ____	386 − 212 = ____	354 + 132 = ____	354 − 132 = ____
666 − 321 = ____	666 + 321 = ____	444 + 232 = ____	444 − 232 = ____